1.

	4		4		4							1		2		3							

2.

4 + 3 = □ 5 + 2 = □ 7 + 3 = □□

3 + 4 = □ 2 + 5 = □ 3 + 7 = □□

3.





Скільки...?

□ + □ = □

□ – □ = □

4.

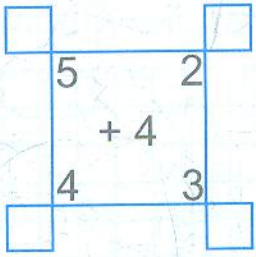

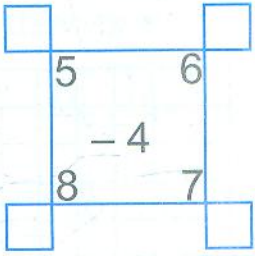

5. Поділи кожний відрізок на будь-які

2 частини

3 частини

6. Розмалюй ті предмети, яких менше.

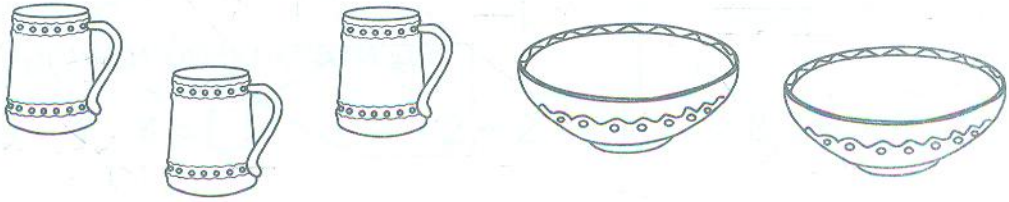

1. 5 5 5 1 2 3

2. 1 + 5 = ☐ 3 + 5 = ☐ 5 + 5 = ☐☐

2 + 5 = ☐ 4 + 5 = ☐ 5 + 0 = ☐

3. Склади й розв'яжи задачу.



Скільки...?

3 + ☐ + ☐ = ☐ (г.)

Відповідь: ☐ горобців.

4. > < =

7 > 3 2 7 5 5 8 6 7 2

8 4 5 8 9 9 4 9 3 8

5. Запиши «сусідів» чисел.

☐ 5 ☐ ☐ 4 ☐ ☐ 7 ☐ ☐ 8 ☐
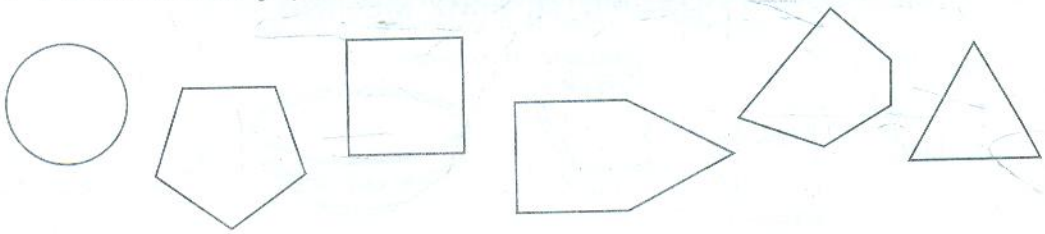
6. Розмалюй у різні кольори всі п'ятикутники.